八個方向

姓名:　　日期:　　班別:

熱身練習

1. 根據下圖的指南針，在空格內填上方向名稱。

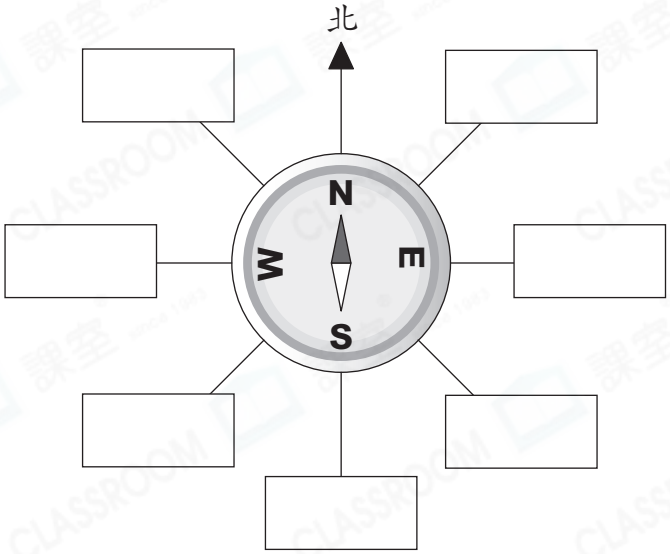

① 東和北中間的方向是東北 (NE)。

② 東和南中間的方向是東南 (SE)。

③ 西和北中間的方向是西北 (NW)。

④ 西和南中間的方向是西南 (SW)。

利用指南針測方向時，先把指南針平放。然後轉動刻度盤，使指針着色的一端指向「北」字。

2. 看圖回答下列問題。

(a) 點 A 在點 O 的_____方。

(b) 哪一個點在點 O 的西北方？

答案：點_____

(c) 由點 C 向_____方一直走到點 O 後，再轉向_____方走，便到達點 E。

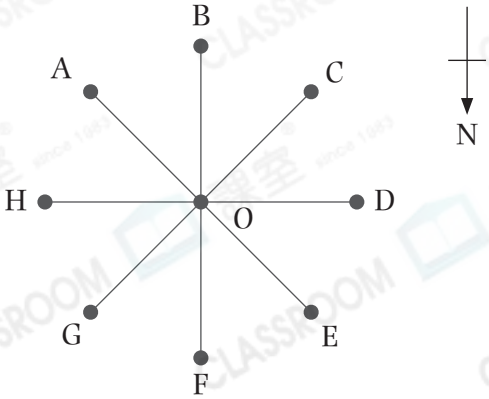

All rights reserved CLASSROOM 課室 版權所有 翻印必究

能力升級

3. 巧萱面向西北方站立，她順時針旋轉一個直角後，面向哪一方？

○ A. 東北　　○ B. 西南

○ C. 東南　　○ D. 西北

4.

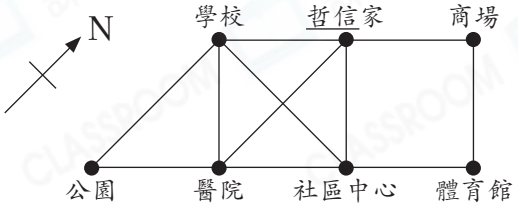

(a) 學校在* 公園 / 醫院 / 社區中心 / 哲信家 (*圈出答案)的西南方。

(b) 哲信從家出發往商場，到達商場時，他在體育館的哪一方？

答案：_____方

5. 以下是公園的地圖，便利店在出入口的東南方。

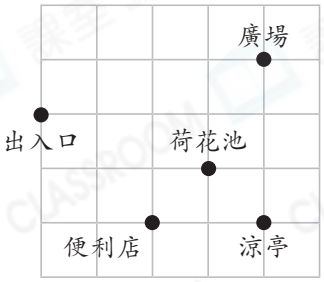

(a) 廣場在涼亭的哪一方？

答案：_____方

(b) 佳佳在荷花池，要去便利店，她應向_____方走，路程才是最短的。

6. 雅玲把指南針平放在手掌上時，指南針的黑色指針指向北方。

(a) 她的食指指向_____方。

(b) * 大拇指 / 食指 / 中指 / 無名指 / 小指 (*圈出答案)指向西南方。

All rights reserved CLASSROOM 課室 版權所有 翻印必究