象形圖和棒形圖 2下、3下、4上

日期

成績 /4

必攻例題

右圖顯示體育用品店七月至九月的單車銷量。在該三個月內，銷量最高的月份是最低的_____倍。

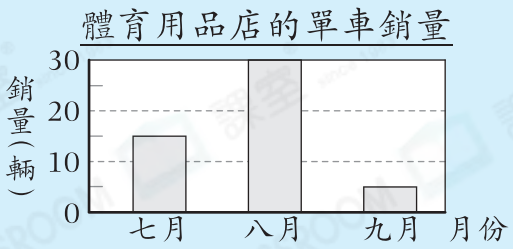

解題思路

1. 八月銷量最高，售出_____輛；九月銷量最低，售出_____輛。
2. 銷量最高的月份是最低的：_____ ÷ _____ = _____（倍）

選擇題 選出正確的答案填在空格內。【4分，每題2分】

1.

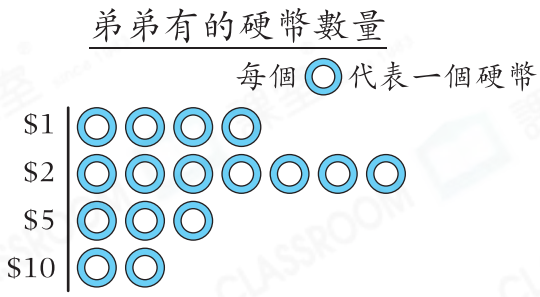

$1和$10硬幣的總值跟$2和$5的相差多少？

A. $3　　B. $4

C. $5　　D. $6

2.

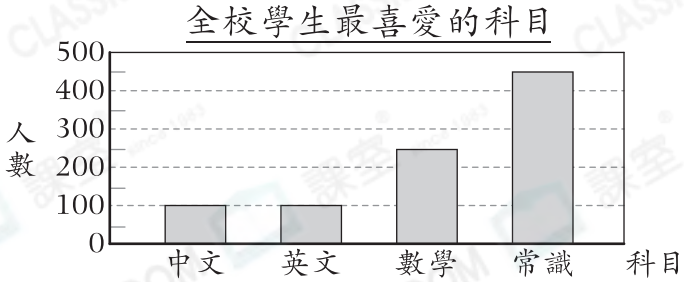

最喜愛哪一個科目的人數剛好是全校人數的一半？

A. 中文　　B. 英文

C. 數學　　D. 常識

思維導向

Q1

① 求出$1和$10硬幣的總值。

② 求出$2和$5硬幣的總值。

③ 求①和②的差。

【30、5、30÷5 = 6】 6 錯的紅叉

All rights reserved CLASSROOM 課室 版權所有 翻印必究